## *GRIGLIA DI VALUTAZIONE PROVE D'INGRESSO DI ITALIANO CLASSI TERZE - SEZ. ….*

| | ***ASCOLTARE E COMPRENDERE*** | ***LEGGERE E COMPRENDERE*** | ***SCRIVERE*** | ***RIFLESSIONE SULLA LINGUA*** | ***PUNTEGGIO TOTALE*** | ***VOTO*** |
|---|---|---|---|---|---|---|
| ***ALUNNO*** | ***SCHEDA N° 1***<br><br>***"ANIMALI NELLE FAVOLE"*** | ***SCHEDA N° 2***<br><br>***"STORIA DI UN BRONTOLONE"*** | ***SCHEDA N° 3***<br><br>***"SCRIVI UNA FRASE PER OGNI IMMAGINE"*** | ***SCHEDA N° 4***<br><br>***"GITA NEL BOSCO"*** | | |
| ***1.*** | | | | | | |
| ***2.*** | | | | | | |
| ***3.*** | | | | | | |
| ***4.*** | | | | | | |
| ***5.*** | | | | | | |
| ***6.*** | | | | | | |
| ***7.*** | | | | | | |
| ***8.*** | | | | | | |
| ***9.*** | | | | | | |
| ***10.*** | | | | | | |
| ***11.*** | | | | | | |
| ***12.*** | | | | | | |
| ***13.*** | | | | | | |
| ***14.*** | | | | | | |
| ***15.*** | | | | | | |
| ***16.*** | | | | | | |
| ***17.*** | | | | | | |
| ***18.*** | | | | | | |
| ***19.*** | | | | | | |
| ***20.*** | | | | | | |
| ***21.*** | | | | | | |
| ***22.*** | | | | | | |
| ***23.*** | | | | | | |
| ***24.*** | | | | | | |
| ***25.*** | | | | | | |
| ***26.*** | | | | | | |
| ***27.*** | | | | | | |
| ***28.*** | | | | | | |

## *GRIGLIA DI VALUTAZIONE PROVE D'INGRESSO DI MATEMATICA CLASSI TERZE - SEZ. ….*

| | *OPERARE CON I NUMERI* | *RISOLVERE PROBLEMI* | *GEOMETRIA* | *LOGICA* | *PUNTEGGIO TOTALE* | *VOTO* |
|---|---|---|---|---|---|---|
| *ALUNNO* | *PROVA N° 1*<br><br>*-I NUMERI DA 0 A 99-*<br>*-LE QUATTRO OPERAZIONI-*<br>*-L'ABACO-* | *PROVA N° 2*<br><br>*PROBLEMI N° 2-3-4* | *PROVA N° 3*<br>*RAPPRESENTA E CLASSIFICA SEMPLICI FIGURE GEOMETRICHE PIANE* | *PROVA N° 4*<br><br>*-PROBLEMA N° 1-* | | |
| *1.* | | | | | | |
| *2.* | | | | | | |
| *3.* | | | | | | |
| *4.* | | | | | | |
| *5.* | | | | | | |
| *6.* | | | | | | |
| *7.* | | | | | | |
| *8.* | | | | | | |
| *9.* | | | | | | |
| *10.* | | | | | | |
| *11.* | | | | | | |
| *12.* | | | | | | |
| *13.* | | | | | | |
| *14.* | | | | | | |
| *15.* | | | | | | |
| *16.* | | | | | | |
| *17.* | | | | | | |
| *18.* | | | | | | |
| *19.* | | | | | | |
| *20.* | | | | | | |
| *21.* | | | | | | |
| *22.* | | | | | | |
| *23.* | | | | | | |
| *24.* | | | | | | |
| *25.* | | | | | | |
| *26.* | | | | | | |
| *27.* | | | | | | |
| *28.* | | | | | | |

# GITA NEL BOSCO

**11** Leggi e completa il racconto con gli **articoli**. Cerchia i nomi.
Fai attenzione, devi usare alcuni articoli più volte.

Oggi Gianni e Roberta vanno a fare ..... gita nel bosco.
Hanno preparato con cura ..... zaini e sono pronti
a incamminarsi sui sentieri, tra ..... monti.
.....aria profuma di abeti e di resina.
Gianni e Roberta si fermano vicino a ..... stagno per
scattare alcune fotografie: ..... gufo appollaiato, ..... coda
di ..... puzzola, .....aquila che vola alta tra
..... rocce e ..... scoiattolo che salta
allegro sull'erba.
Improvvisamente Gianni e Roberta si
sentono osservati da due occhi
curiosi: è ..... cervo dalle grandi
corna nascosto tra gli alberi.
"Che bello!" pensano .....
bambini, ma dopo pochi secondi
..... cervo scompare nel folto bosco.

# SCRIVI UNA FRASE PER OGNI IMMAGINE



INDIVIDUARE LE POSSIBILI CAUSE DI UNA SITUAZIONE DATA.

# STORIA DI UN BRONTOLONE

Leggi il racconto e riordina i disegni.

Una volta dei bambini stavano giocando a palla dietro casa. Un uomo aprì la finestra e strepitando disse ai bambini di non gridare tanto.
Allora i bambini presero i pattini e andarono in strada. L'uomo aprì un'altra finestra e si mise a urlare di non suonare i campanelli.
Allora i bambini presero una corda e andarono a saltare nel parco.
L'uomo decise di andare a passeggio nel parco e, vedendo i bambini, ricominciò a urlare che non dovevano sbarrare la strada con la corda.
Ma i bambini non l'udirono.
L'uomo allora si avvicinò per portare loro via la corda. Tese le mani per afferrarla nel momento in cui era alta in aria, ma la corda, ricadendo, gli fece saltare il cappello dalla testa e sbattendogli sui piedi lo costrinse a fare un balzo.
Questo fatto lo rese furibondo. Prese a girare su se stesso, cosicché la corda gli si attorcigliò intorno alle gambe.
I bambini non potevano fare a meno di ridere a crepapelle.

U. Wölfel, *Storie per ridere*, Nuove Edizioni Romane



# Animali nelle favole

Leggi il testo.

Un leone riposava sdraiato al sole. Una farfalla, volteggiando con grazia, gli sfiorò il naso.
Poi, continuando la sua danza, volò più in alto e tornò a posarsi sulla sua criniera, sventolando le ali sulla sua fronte maestosa.
Il leone si accorse di quei movimenti e aprì gli occhi. Vide la farfalla che volteggiava un pochino più su, attorno al ramo di un albero.
– Qui nella foresta mi rispettano tutti – ruggì arrabbiato – e tu, sciocca, vuoi forse prendermi in giro?
– Oh no, scusami tanto, credevo proprio che non ti fossi accorto di me – rispose subito la farfalla.
– Ah! Ah! Ah! Non sai che a me non sfugge niente? Perfino quando dormo so quello che succede intorno a me! – rispose ancora il leone con aria regale. – E comunque, se non vuoi fare una brutta fine, vattene subito, vattene lontano e non darmi più fastidio.
– Mi parli con superbia – disse allora la farfalla coraggiosa – ma fai male, perché un giorno potresti avere bisogno di me.
– Io, aver bisogno di te? Ah! Ah! Ah! Questa sì che è una bella trovata! – Scoppiò a ridere il leone. – Io non ho bisogno di nessuno. Davanti a me tremano tutti, perfino la tigre, trema il coraggioso leopardo, tremano le volpi, gli sciacalli, le iene… Come potrei aver bisogno di te? Forse vorresti combattere insieme a un leone?
– Zitto, zitto – sussurrò la farfalla – si sta avvicinando un uomo armato, un cacciatore…
La farfalla scese volando verso l'uomo che già stava per tirare una freccia al leone e girandogli intorno agli occhi con una danza veloce, gli confuse la vista. Il tiro partì, ma il cacciatore sbagliò la mira. La freccia con un sibilo andò a conficcarsi nel tronco di un albero e il leone, con un balzo, si mise in salvo nel folto della foresta.

*Gli animali nelle favole*, Giunti Scuola, Firenze 2010

Completa le frasi.

- Il leone riposa. E intanto .....
- Il leone sente la farfalla. E così .....
- Il leone e la farfalla parlano. Nel frattempo .....
- Mentre il cacciatore tira la freccia .....

# I dati del problema

Leggi i seguenti problemi, sottolinea in verde i dati e in rosso la domanda, poi risolvi a fianco e rispondi.

| | |
|---|---|
| In classe di Sara ci sono 25 bambini; oggi 4 bambini sono assenti. Quanti sono gli scolari presenti oggi? Risposta: ..... ..... ..... | LOGICA |
| Un gruppo di amici parte per le vacanze; ci sono 6 auto e su ogni auto 4 persone. Quanti sono gli amici in tutto? Risposta: ..... ..... ..... | |
| Giovanni distribuisce 21 biscotti a 3 suoi compagni. Quanti biscotti toccano a ogni bambino? Risposta: ..... ..... ..... | |
| Laura ha raccolto 14 margherite e 10 viole, Chiara ha raccolto 8 tulipani e 12 margherite. Quanti sono i fiori in tutto? Risposta: ..... ..... ..... | |

# CONTIAMO CON L'ABACO (2)

Completa la tabella.

| In cifre | In lettere | Sull'abaco | Scomposizione |
|---|---|---|---|
| 486 | quattrocentottantasei | 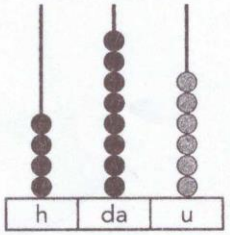  | 4 h, 8 da, 6 u<br>400 + 80 + 6 |
| 731 | ..... | 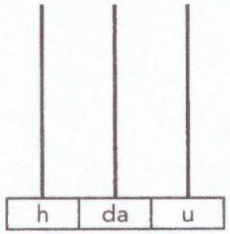  | .....<br>..... |
| ..... | duecentonovantaquattro | 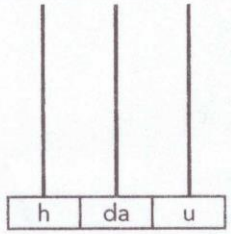  | .....<br>..... |
| ..... | ..... | 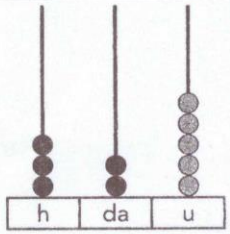  | .....<br>..... |
| ..... | ..... | 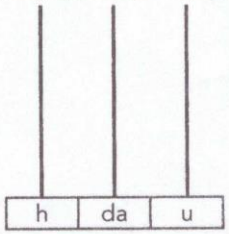  | 9 h, 7 da, 8 u<br>900 + 70 + 8 |

# LE QUATTRO OPERAZIONI

) Metti in colonna ed esegui le operazioni.

13 + 25 =

57 + 28 =

40 + 39 =

76 – 52 =

80 – 47 =

63 – 36 =

43 x 2 =

15 x 6 =

27 x 3 =

39 : 3 =

87 : 2 =

78 : 4 =

# I NUMERI DA 0 A 99 (2)

Scrivi i numeri mancanti.

| | | |
|---|---|---|
| 12 = 10 + ..... | 48 = 40 + ..... | 74 = 70 + ..... |
| 87 = 80 + ..... | 93 = 90 + ..... | 56 = 50 + ..... |
| 35 = ..... + 5 | 26 = ..... + 6 | 69 = ..... + 9 |
| 61 = ..... + 1 | 74 = ..... + 4 | 92 = ..... + 2 |

Metti il segno <, > o = tra le coppie di numeri.

| | | |
|---|---|---|
| 43 ☐ 45 | 53 ☐ 61 | 75 ☐ 57 |
| 68 ☐ 68 | 85 ☐ 48 | 8 ☐ 80 |
| 99 ☐ 94 | 17 ☐ 17 | 39 ☐ 93 |
| 31 ☐ 38 | 25 ☐ 55 | 50 ☐ 49 |

Riscrivi i numeri in ordine crescente.

63 28 3 13 35 53 72 33 0 60 48

.....

Riscrivi i numeri in ordine decrescente.

80 51 46 16 77 98 27 9 90 38 61

.....

Scopri la regola e completa le successioni.

| | | | | | | | | |
|---|---|---|---|---|---|---|---|---|
| 26 | 31 | | | | | | | 66 |

| | | | | | | | | |
|---|---|---|---|---|---|---|---|---|
| 72 | 69 | | | | | | | 48 |

| | | | | | | | | |
|---|---|---|---|---|---|---|---|---|
| 47 | 51 | | | | | | | 79 |

**VALUTAZIONE PROVE D'INGRESSO CLASSI TERZE : ITALIANO**

SCHEDA N°1 – "ANIMALI NELLE FAVOLE"

| **RISPOSTE ESATTE** | **VOTO** |
|---|---|
| 4 risposte esatte | 9/10 |
| 3 = = | 8/9 |
| 2 = = | 7/8 |
| 1 = = | 6/7 |
| 0 = = | 5 |

SCHEDA N° 2 – "STORIA DI UN BRONTOLONE"

| **RISPOSTE ESATTE** | **VOTO** |
|---|---|
| 4 risposte esatte | 10 |
| -4 risposte esatte | 5 |

SCHEDA N°3 - " GITA NEL BOSCO "
(10 articoli – 24 nomi )

| **ARTICOLI** | **VOTO** |
|---|---|
| 10 artic. esatti | 10 |
| 9 = = | 9 |
| 8 = = | 8 |
| 7 = = | 7 |
| 6 = = | 6 |
| 5 = = | 5 |
| **NOMI** | **VOTO** |
| 24 risposte esatte | 9/10 |
| 20 = = | 8 |
| 16 = = | 7 |
| 12 = = | 6 |
| 11 = = | 5 |

SCHEDA N° 4 – "SCRIVI UNA FRASE PER OGNI IMMAGINE"

| RISPOSTE ESATTE | VOTO |
|---|---|
| 4 risposte esatte | 9/10 |
| 3 = = | 8/9 |
| 2 = = | 7/8 |
| 1 = = | 6/7 |

**VALUTAZIONE PROVE D'INGRESSO CLASSI TERZE : MATEMATICA**

## 1^ PROVA - " OPERARE CON I NUMERI "

| | |
|---|---|
| ***SCHEDA N° 1***<br>***"NUMERI NATURALI FINO A 99 "***<br>***ES. N° 1/2*** | |
| RISPOSTE ESATTE | VOTO |
| risposte esatte 12/12 | 10 |
| = = 11/12 | 9 |
| = = 10/12 | 8 |
| = = 9/12 | 7 |
| = = 8/12 | 6 |
| ***NUMERI NATURALI FINO A 99***<br>***ES. N° 3*** | |
| RISPOSTE ESATTE | VOTO |
| risposte esatte 11/11 | 10 |
| = = 10/11 | 9 |
| = = 9/11 | 8 |
| = = 8/11 | 7 |
| = = 7/11 | 6 |
| ***NUMERI NATURALI FINO A 99***<br>***ES. N° 4*** | |
| | SI TOLGONO **2 PUNTI** PER CIASCUNA SEQUENZA ERRATA |
| ***SCHEDA N° 2***<br>***"LE QUATTRO OPERAZIONI "*** | |
| RISPOSTE ESATTE | VOTO |
| risposte esatte 12/12 | 10 |

| | |
|---|---|
| = = 11/12 | 9 |
| = = 10/12 | 8 |
| = = 9/12 | 7 |
| = = 8/12 | 6 |

## 2^ PROVA - " RISOLVERE PROBLEMI "

| **PROBLEMI N° 2/3/4** | |
|---|---|
| **RISPOSTE ESATTE** | **VOTO** |
| RISOLUZIONE DI PROBLEMI | SI TOGLIE **1 PUNTO** PER CIASCUN ERRORE |

## 3^ PROVA - GEOMETRIA " DISEGNA 5 FIGURE GEOMETRICHE PIANE "

| **PROBLEMI N° 2/3/4** | |
|---|---|
| **RISPOSTE ESATTE** | **VOTO** |
| **QUADRATO/ RETTANGOLO / TRIANGOLO / CERCHIO / ROMBO** | TUTTE ESEGUITE CORRETTAMENTE: **10**<br><br>SI TOGLIE **1 PUNTO** PER CIASCUN ERRORE |

## 4^ PROVA - LOGICA

| **PROBLEMI N° 1** | |
|---|---|
| **RISPOSTE ESATTE** | **VOTO** |
| RISOLUZIONE DI PROBLEMI | ERRORE NELLA RISOLUZIONE : **5** |